تجربة رقم 3

تعيين معامل الاحتكاك البشري بين سطحين

الأجهزة المستعملة Apparatus

(1) جهاز معامل الاحتكاك
(2) قطعة من الخشب
(3) كفة ميزان + علبة الخيط الدقيق
(4) أثقال + ميزان الحمل

نظرية التجربة Theory

إذا أثرت قوة مماسية مثل (F) على جسم مثل (A) موضوع على سطح أفقي مثل (B) كما مبين في الشكل (1) .

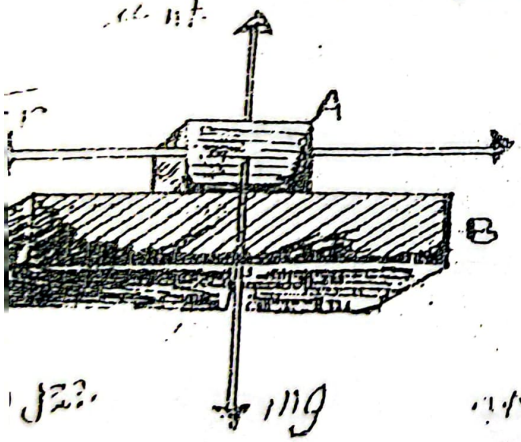

وبرغم عدم تحرك الجسمين (A)
توجد بين الجسمين قوة تعادل
القوة المماسة بالمقدار وتعاكسها بالاتجاه
وتدعى هذه القوة بقوة الاحتكاك (Fr)
Force of Friction وعند ازدياد القوة
(F) يزداد ازدياد في قوة الاحتكاك (Fr)
الى ان يتحرك الجسم (A) يتركه من السكون وتدعى القوة المماسية
آن ذاك بقوة الاحتكاك السكوني (Fs)
Force of Static Friction
وبعد التحرك تكون القوة اللازمة للمحافظة لحركة بسرعة منتظمة وتدعى
بقوة الاحتكاك الانزلاقي

٣- ارتبط الصينيتين . نضاعف كل قباسة في نقطتين على الأقل حول
بينها على ان تحدد بنقطة الركز او بالقرب منها .
تثبت وسجل كل زاوية كما موضح في الشكل التالي :

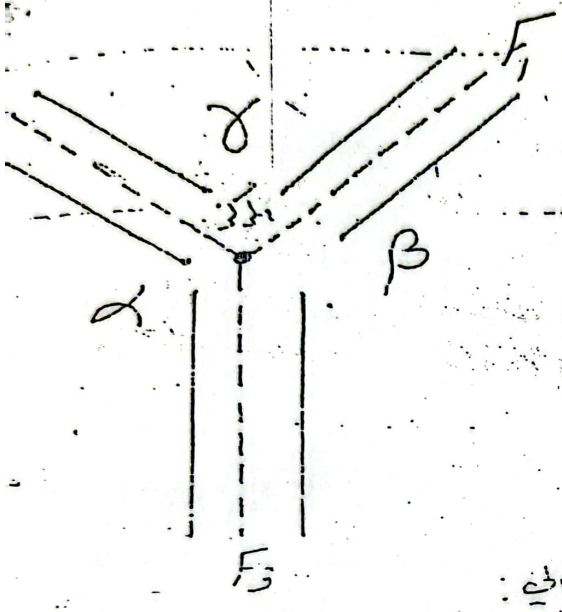

٤- سجل مقادير القوى والزوايا
في بيانات التقرير مع رسم تخطيطي

٥- مثل جهد مقياس الرسم على ورقة
التقرير كل قوتين مع الزاوية المحصورة
بينهما وجد المحصلة .

٦- جد المحصلة ايضاً بواسطة القانون التالي :

$$R = \sqrt{A^2 + B^2 + 2AB\cos\theta}$$

٧- قارن المحصلة من (٥) و (٦) بالقوة الثالثة الباقية = المحصلة

٨- كرر الفقرات (٥، ٦، ٧) للقوتين الباقيتين .

٩- جد فيه كل من $\frac{F_1}{\sin\alpha} = \frac{F_2}{\sin\beta} = \frac{F_3}{\sin\gamma}$

وقارنه بينهن .

طريقة العمل :- Method

١- ضع جهاز مسائل الاحتكاك بحيث تكون الطاولة فوق سطح المنضدة ، ثم ضع على الجهاز قطعة الخشب وحدد وزنها (W) بقوة ثقل الجرام $W = mg$ حيث (m) كتلة القطعة الخشبية التي قمنا بوزنها بواسطة الميزان و (g) = التعجيل الارضي ... (cm/sec^2)

٢- اربط القطعة الخشبية بالخيط رفيع غير مرن طوله (C) ومرر الخيط بكرة الجهاز ثم علق في نهاية الخيط كفة الميزان (R) حيث تكون الخيط أفقياً مثل (C)

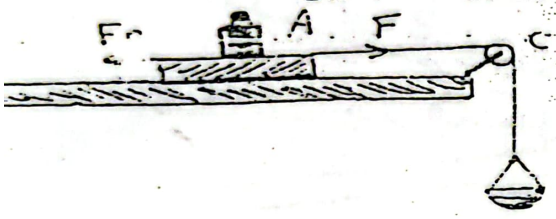

٣- ضع ثقلاً ما في كفة الميزان الى ان تتحرك القطعة (A) بالمرة .

٤- جد وزن الكفة بما فيها من ثقل وكتلة (M_1) بقوة ثقل الجرام $M_1 = m_1 g$

٥- كرر الخطوة (٣) و (٤) ثانية للمرة الثالثة من وزن الكفة في الثقل ثم جد معدل الكتلة الحاصل لها :

$$M_2 = \frac{M_1 + M_2}{2}$$

٦- ضع الثقل فوق القطعة الخشبية (A) فسيكون وزن القطعة بما فوقها من الاثقال $W + W_1$ ثم جد وزن الكفة .

٧- كرر الخطوة (٦) لعدد من الاثقال المناسبة

٨- رتب قراءاتك في الجدول التالي

القوة المغناطيسية $F=mg$ نت	وزنه الكفه بما فيها من رمل			القوة الضاغطة $N=W=mg$	وزنه الخشبة بما فيها من اثقال $W=W_1+W_2$
	$m=\frac{m_1+m_2}{2}$	m_2	m_1		

٨ - ارسم علاقة بيانية بين القوة الساحبة (F) نيوتن على المحور الصادي والقوة الضاغطة (N) نيوتن على المحور السيني. ثم جد من العلاقة البيانية ميل الخط المستقيم الذي يمثل معامل الاحتكاك

$$\mu = \frac{AB}{OB}$$